સામયિક મૂલ્યાંકન કસોટી

ધોરણઃ ૩ **ગણિત** **જુલાઈ,** ૨૦૨૦

સમયઃ ૧ **કલાક** **કુલ ગુણઃ** ૨૫

* અ.નિ. (અધ્યયન નિષ્પત્તિ- **Learning Outcome)**

અ.નિ. સીધી રેખાનો ઉપયોગ કરીને, ત્રુટક રેખા પરથી કાગળ કાપીને, કાગળને ગડી પાડીને ... વગેરે દ્વારા દ્વિ-પરીમાણીય (૨D)આકારો બનાવે છે અને ઓળખે છે. (પ્રશ્નઃ ૧ થી ૫)

પ્રશ્નઃ ૧. **નીચે આકારો દોરેલા છે. તેમાંથી જે આકારોમાં સીધી લીટીનો ઉપયોગ થયેલ છે તેની નીચે આપેલ લીટીમાં 'હા' લખો. જે આકારોમાં સીધી લીટીનો ઉપયોગ થયેલ નથી ત્યાં 'ના' લખો.** (૫)

(૧) _____

(૨) 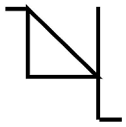 _____

(૩) _____

(૪) _____

(૫) _____

પ્રશ્નઃ ૨. **ચોરસ અને લંબચોરસ બનાવવા નીચેની આકૃતિઓ પૂર્ણ કરો.** (૫)

(૧) 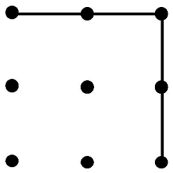

(૨) 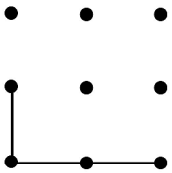

(૩) 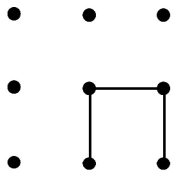

(૪) 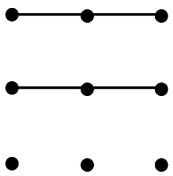

(૫) 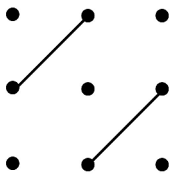

પ્રશ્નઃ ૩. **સાચા વિકલ્પ પર ખરા (✓) ની નિશાની કરો.** (૫)

(૧) 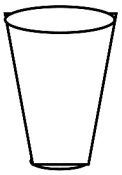

(પ્યાલો)

પ્યાલાને આ સ્થિતિમાં જોવા માટે તમારે ક્યાંથી જોવું પડશે ?

(અ) સામેથી **(બ) ઉપરથી** **(ક) નીચેથી** **(ડ) એકેય નહિ.**

(૨)

(ઈંટ) ઈંટને આ સ્થિતિમાં જોવા માટે તમારે ક્યાંથી જોવું પડશે ?

(અ) સામેથી (બ) ઉપરથી (ક) બાજુએથી (ડ) નીચેથી

(૩)
(ખુરશી) ખુરશીને આ સ્થિતિમાં જોવા માટે તમારે ક્યાંથી જોવું પડશે ?

(અ) સામેથી (બ) બાજુએથી (ક) ઉપરથી (ડ) નીચેથી

(૪)
(પેન્સિલ) પેન્સિલને આ સ્થિતિમાં જોવા માટે તમારે ક્યાંથી જોવું પડશે ?

(અ) બાજુએથી (બ) સામેથી (ક) નીચેથી (ડ) ઉપરથી

(૫)
(બસ) બસને આ સ્થિતિમાં જોવા માટે તમારે ક્યાંથી જોવું પડશે ?

(અ) નીચેથી (બ) ઉપરથી (ક) બાજુએથી (ડ) સામેથી

પ્રશ્ન: ૪ **નીચેની આકૃતિઓનો અડધો ભાગ દોરેલ છે. તમે બીજો અડધો ભાગ દોરી આકૃતિ પૂર્ણ કરો.** (૫)

(૧) 

(૨) 

(૩) 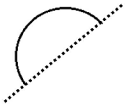

(૪) 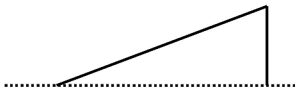

(૫)

પ્રશ્ન: ૫. **નીચે અક્ષરોનો અડધો ભાગ દોરેલ છે. તમે બીજો અડધો ભાગ દોરીને અક્ષરને પૂર્ણ કરો.** (૫)

(૧)

(૨)

(૩) 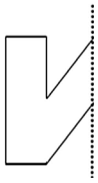

(૪) 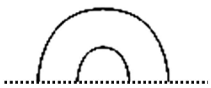

(૫) 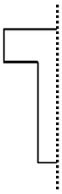

સામયિક મૂલ્યાંકન કસોટી

ધોરણ : 3 | ગણિત | માર્ચ, ૨૦૨૧

સમયઃ ૧ કલાક | કુલ ગુણઃ ૨૫

LO સરળ આકાર અને સંખ્યાઓમાં પેટર્ન વિસ્તારે છે.

પ્રશ્ન-૧ સાચા વિકલ્પ પસંદ કરો. (૫)

(૧)



(અ) (બ) (ક) (ડ)

(૨)



(અ)  (બ) (ક)  (ડ) 

(૩)

(અ) 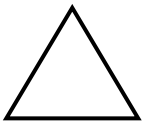 (બ) (ક) (ડ)

(૪)



(અ) 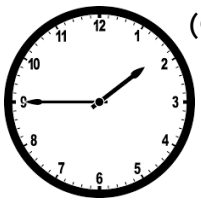 (બ) (ક) (ડ)

(૫)

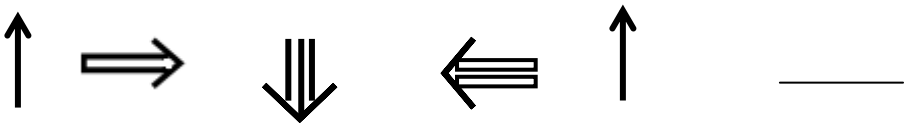

(અ) (બ) (ક) (ડ)

LO સરળ આકાર અને સંખ્યાઓમાં પેટર્ન વિસ્તારે છે.

પ્રશ્ન-૨ પેટર્ન વિસ્તારતાં ખાલી જગ્યામાં સાચો જવાબ લખો. (૫)

(૧) ૧૧, ૧૩, ૧૫, ૧૭, _____

(૨) ૧૧, ૩૧, ૫૧, ૭૧, _____

(૩) ૯૭, ૮૭, ૭૭, ૬૭, _____

(૪) ૨, ૬, ૧૦, ૧૪, _____

(૫) ૦, ૧, ૧, ૨, ૩, ૫, ૮, _____

LO બિન પ્રમાણિત એકમો વડે વિવિધ પાયાની ગુંજાશની સરખામણી કરે છે.

પ્રશ્ન-૩ ૧ લીટરથી ઓછું અને ૧ લીટરથી વધુ પ્રવાહી સમાય તેવા નીચે દર્શાવેલ પાત્રોનું વર્ગીકરણ કરો. (૫)

(વાટકી, ડોલ, પ્યાલો , કપ, પાણીની ટાંકી, ૫૦૦ ml નું માપીયું, આંખની દવાની શીશી, પશુઓને પાણી પાવાનો હોજ, થાળી, માટલું)

૧ લીટરથી ઓછું પ્રવાહી સમાતા પાત્રો	૧ લીટરથી વધુ પ્રવાહી સમાતા પાત્રો

LO ભાગાકારના તથ્યો સમાન જૂથ, સમાન વહેંચણી અને પુનરાવર્તિત બાદબાકીના સંદર્ભમાં સમજે છે.

પ્રશ્ન-૪ નીચેના પ્રશ્નોના જવાબ આપો.

(૧) શિક્ષક પાસે ૧૫ ચૉકલેટ છે. તે ૩ જૂથમાં વહેંચતાં દરેક જૂથમાં કેટલી ચૉકલેટ આવે ? (૧)

(૨) ૧૨ કેળા છે અને બે વાંદરાં છે. જો તેઓ કેળાના સરખા ભાગ પાડે તો દરેકના ભાગમાં કેટલાં કેળા આવે ? ભાગાકાર સ્વરૂપે દર્શાવો. (૨)

(૩) પાંચ રૂપિયાના ૧૬ સિક્કા ચાર મિત્રોને સરખે ભાગે વહેંચતાં દરેકને કેટલા રૂપિયા મળે ? (૨)

LO ભાગાકારના તથ્યો સમાન જૂથ, સમાન વહેંચણી અને પુનરાવર્તિત બાદબાકીના સંદર્ભમાં સમજે છે.

પ્રશ્ન -૫ ખાલી જગ્યા પૂરો. (૫)

(૧) ૮ ÷ ૪ = _____

(૨) _____ ÷ ૨ =૧૦

(૩) ૧૦ ÷ _____ = ૨

(૪) ૧૮ ÷ ૬ = ____

(૫) ૩૦ ÷ _____ = ૩

સામાયિક મૂલ્યાંકન કસોટી

ધોરણ : ૩ | વિષય : ગણિત | ડિસેમ્બર, ૨૦૨૦

સમય : ૧ કલાક | કુલ ગુણ : ૨૫

(અ.નિ: અધ્યયન નિષ્પત્તિ - Learning Outcome)

અ.નિ. વસ્તુઓના હલકા અને ભારેપણાનો અંદાજ લગાવે છે.

પ્રશ્ન : ૧ નીચેના પ્રશ્નોના સાચા જવાબ પર O ની નિશાની કરો. **(૫)**

(૧) નીચેનામાંથી સૌથી ભારે વસ્તુ કઈ છે ?

(અ)

(બ)

(ડ)

(૨) નીચેનામાંથી સૌથી હલકી (ઓછી વજનદાર) વસ્તુ કઈ છે ?

(અ) ૧ કિલોગ્રામ રૂ (કપાસ) (બ) ૧ કિલોગ્રામ મગફળી

(ક) ૧ કિલોગ્રામ ઘઉં (ડ) ઉપરનામાંથી એકેય નહિ

(૩) ૨ કિલોગ્રામ ખાંડ આપવા કયા વજનિયાનો ઉપયોગ થશે ?

(અ)

(બ) 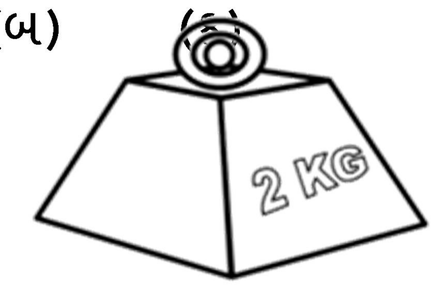

(ડ) 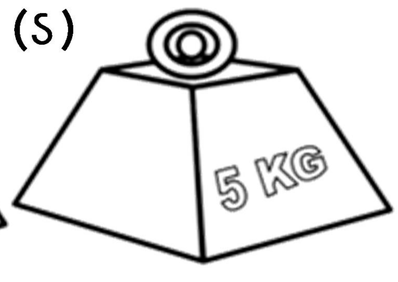

(4) ધોરણ ૩ માં ભણતી પૃથાનું વજન અંદાજે કેટલું હશે ?

(અ) ૩૦ કિગ્રા (બ) ૩ કિગ્રા

(ક) ૩૦ ગ્રામ (ડ) ૩૦૦૦ ગ્રામ

(૫) નીચેનામાંથી અડધા કિલોગ્રામ કરતાં ઓછા વજનવાળી વસ્તુ કઈ છે ?

(અ) 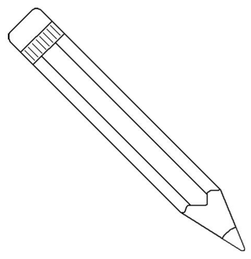

(બ) 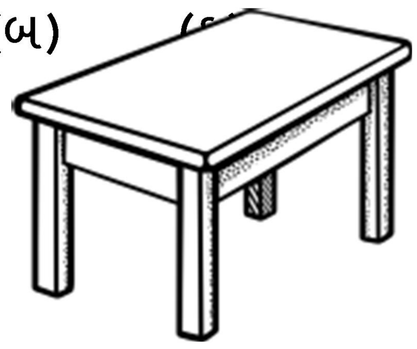

(ડ)

અ.નિ. ગ્રામ અને કિલોગ્રામને સમાવતા સરવાળા અને બાદબાકીને લગતા વ્યવહારું કોયડા ઉકેલે છે.

પ્રશ્ન: ૨ કોઠામાં બનાવેલ વસ્તુ અને તેના વજનને આધારે નીચેના પ્રશ્નોના જવાબ આપો. **(૫)**

વસ્તુ	વજન
ઘઉં	૫ કિગ્રા
બટાટા	૧૦ કિગ્રા
કોબીજ	૧ કિગ્રા
મકાઈ	૧૫ કિગ્રા
ગોળ	૮ કિગ્રા

પ્રશ્નો:

(૧૧) ઘઉં અને ગોળ બંનેનું વજન કેટલું થશે ?

(૧૨) બટાટા અને મકાઈ બંનેનું કુલ વજન કેટલું થશે ?

(૧૩) ઘઉં કરતાં મકાઈનું વજન કેટલું વધારે છે ?

(૧૪) કોબીજ કરતાં બટાટાનું વજન કેટલું વધારે છે ?

(૧૫) સૌથી ઓછું વજન કઈ વસ્તુનું છે ?

અ.નિ. વિવિધ પ્રકારનાં ત્રાજવાં અને વજનિયાં વિશે જાણે છે.

પ્રશ્ન: ૩ વિભાગ (અ) ને વિભાગ (બ) સાથે સાચી રીતે જોડો. (૫)

(અ) વસ્તુ	(બ) સામાન્ય રીતે ઉપયોગમાં લેવાતા ત્રાજવા
(૧) શરીરનું વજન કરવા માટે	(૧)
(૨) સોના – ચાંદીનાં ઘરેણાંનું વજન કરવા માટે	(૨)
(૩) શાકનું વજન કરવા માટે	(૩)
(૪) અનાજની બોરીનું વજન કરવા માટે	(૪)
(૫) ગેસના બાટલાનું વજન માપવા	(૫)

અ.નિ. રોજિંદા જીવનની પરિસ્થિતિમાં ૨ , ૩, ૪, ૫ અને ૧૦ ના ગુણાકારનાં તથ્યોનું નિર્માણ કરે છે અને ઉપયોગ કરે છે.

પ્રશ્ન: ૪ ખાલી જગ્યા પૂરો. **(૫)**

(૧૬) ૨ + ૨ + ૨ + ૨ + ૨ + ૨ = ૬ × _____

(૧૭) ૧૧ + ૧૧ + ૧૧ = _____× ૧૧

(૧૮) એક ચોકલેટના ૨ રૂપિયા તો ૮ ચોકલેટની કિંમત _____ થાય.

(૧૯) ૩ × ૮ = _____

(૨૦) સાત વખત એક એટલે = _____ × _____.

અ.નિ. ગુણાકાર આધારિત પેટર્ન પૂર્ણ કરે છે.

પ્રશ્ન: ૫ નીચેની પેટર્ન આગળ વધારો. **(૫)**

(૧) ૨, ૪, ૬, ૮, ...

(૨) ૩, ૬, ૯, ૧૨, ...

(૩) ૬, ૧૨, ૧૮, ૨૪, ...

(૪) ૧૦, ૨૦, ૩૦, ૪૦, ...

(૫) ૨૦, ૪૦, ૬૦, ૮૦, ...

સામાયિક મૂલ્યાંકનકસોટી

ધોરણ : 3 | ગણિત | સપ્ટેમ્બર, ૨૦૨૦

સમય: ૧ કલાક | કુલ ગુણ : ૨૫

(અ.નિ.: અધ્યયન નિષ્પત્તિ- Learning Outcome)

અ.નિ. **આપેલ પરિસ્થિતિ/પરિપ્રેક્ષ્યમાં યોગ્ય અંક ક્રિયા દર્શાવે છે અને ઉપયોગ કરે છે.**

પ્રશ્ન: ૧ **વિભાગ-અ ને વિભાગ-બ સાથે સાચી રીતે જોડો.** **(૦૫)**

વિભાગ - અ	વિભાગ - બ
(૧) ૩૩ અને ૫૩ ની બરાબર વચ્ચે આવતી સંખ્યા	(ક) ૧૫
(૨) અડધી સદી + ૧૯ = _____	(ખ) ૨૩
(૩) સદીમાં ત્રણ ઓછા	(ગ) ૬૯
(૪) ૧૦ રૂપિયાનો એક સિક્કો + ૫ રૂપિયાનો એક સિક્કો = _____ રૂપિયા	(ઘ) ૯૭
(૫) ૨ એકમ અને ૩ દશક	(ચ) ૪૩
	(છ) ૩૨

અ.નિ. **૯૯૯ સુધીની તરત પહેલાંની અને તરત પછીની સંખ્યા ઓળખે છે તથા બે સંખ્યા વચ્ચેની સંખ્યા કહે છે**

પ્રશ્ન: ૨ **ખાલી જગ્યા પૂરો** **(૦૫)**

(૧) ૮૪૦, ૮૪૧, _____, ૮૪૩, ૮૪૪

(૨) ૩૯૮, ૩૯૯, _____.

(૩) _____ , ૬૧૦, ૬૧૧, ૬૧૨

(૪) _____, ૧૦૦, ૧૦૧

(૫) ૨૪૯, _____ ૨૫૧, ૨૫૨

અ.નિ. **૯૯૯ થી વધે નહિ તેવા વદ્દી વગરના તથા વદ્દીવાળા સરવાળા કરે છે.**

પ્રશ્ન: ૩ **સૂચના મુજબ જવાબ આપો**

(૧) સરવાળો કરો : ૫૦૩ + ૩૮૫ (૦૨)

(૨) સરવાળો કરો : ૩૬૩ + ૪૫૮ (૦૨)

(૩) ૧૦૦ માં ૨૦૦ ઉમેરતાં કેટલા મળે ? (૦૧)

અ.નિ. **જવાબ ૯૯૯ થી વધતો ન હોય તેવી ત્રણ અંકની સંખ્યાઓના રોજિંદા જીવનને સ્પર્શતા સરવાળા-બાદબાકીના કોયડા ઉકેલે છે.**

પ્રશ્ન: ૪ **સૂચના મુજબ જવાબ આપો**

(૧) એક મોબાઈલ બનાવતી કંપનીમાં પ્રથમ દિવસે ૨૬૭ મોબાઈલ બન્યા. બીજા દિવસે ૧૨૩ મોબાઈલ બન્યા હોય, તો બંને દિવસના થઈ કુલ કેટલા મોબાઈલ બન્યા ? (૦૨)

(૨) મહેશે ₹ ૨૧૩ ની ખાંડ અને ₹ ૩૯૨ ની ચા ખરીદી હોય, તો તેણે કુલ કેટલા રૂપિયાની ખરીદી કરી ? (૦૨)

(૩) એક લિટર દૂધના ૫૦ રૂપિયા હોય તો બે લિટર દૂધની કિંમત શું થાય? (૦૧)

અ.નિ. **મીટરનું સેમી અને સેમીનું મીટરમાં રૂપાંતર કરે છે.**

પ્રશ્ન:૫ વિભાગ-અ ને વિભાગ-બ સાથે સાચી રીતે જોડો. **(૦૫)**

વિભાગ - અ		વિભાગ - બ	
(૧)	૧૦૦૦ સેમી	(ક)	૨ મીટર ૧૦ સેમી
(૨)	૪ મીટર	(ખ)	૭૦ મીટર
(૩)	૨૧૦ સેમી	(ગ)	૧૦ મીટર
(૪)	૭૦૦૦ સેમી	(ઘ)	૯૦૦ સેમી
(૫)	૯ મીટર	(ચ)	૪૦૦ સેમી
		(છ)	૨૧ મીટર

સામયિક મૂલ્યાંકન કસોટી

ધોરણ-૩ | ગણિત | તા.૨૪/૧૨/૨૦૨૧

સમયઃ ૧ કલાક | કુલ ગુણઃ ૨૫ ગુણ

પ્રશ્ન-૧ વજનનું અનુમાન કરી જોડકાં જોડો. (૫)

વિભાગ - A	વિભાગ - B
(૧)	(૧) ૨૦૦ ગ્રામ
(૨)	(૨) ૧૦ કિલોગ્રામ
(૩)	(૩) ૧૦ ગ્રામ
(૪)	(૪) ૯૦૦ કિલોગ્રામ
(૫)	(૫) ૪૦૦ કિલોગ્રામ

પ્રશ્ન- ૨ નીચેનાં વિધાનો વાંચી ખરા વિધાન સામે(√) અને ખોટા વિધાન સામે(x) ની નિશાની કરો. (૫)

(૧) તમારી સ્કૂલ બેગ કરતાં કંપાસ બોક્ષનુ વજન વધારે છે. ( )

(૨) ચશ્માનું વજન ૨૦૦ ગ્રામ કરતાં ઓછું હોય છે. ( )

(૩) બિલાડી, ફૂતરો અને સસલામાં સૌથી વધુ વજન સસલાનું છે. ( )

(૪) લોખંડના મોટા ટેબલનું વજન ૨ કિલોગ્રામ કરતાં ઓછું હોય છે. ( )

(૫) ૨ કિલોગ્રામ અને ૨૦૦ ગ્રામમાં ૨ કિલોગ્રામ ભારે વજનિયું છે. ( )

પ્રશ્ન-3 આપેલ વજનકાંટાનો ઉપયોગ કઈ વસ્તુનું વજન માપવા માટે થાય છે તે જણાવો. (૫)

(૧)

(૨)

(૩)

(૪)

(૫)

પ્રશ્ન-૪ ખાલી જગ્યા પૂરો. **(૫)**

(૧) ..... × ..... = ૧૨

(૨) ..... × ..... = ૨૪

(૩) ..... × ..... = ૨૮

(૪) ..... × ..... = ૩૬

(૫) ..... × ..... = ૪૦

પ્રશ્ન-૫ પેટર્ન જોઇ તેને પૂર્ણ કરો. **(૫)**

(૧) ૭, ૧૪, ૨૧, ...

(૨) ૮, ૧૬, ..., ૩૨

(૩) ૫, ૧૫, ૨૫ .....

(૪) ૩, ૯, ... ૨૧

(૫) ૨૦, ૪૦, ૬૦, ...

શિક્ષક માટેઃ

પ્રશ્ન નંબર	અ.નિ. ક્રમાંક	વિધાન
1 અને 2	M306.1	વસ્તુઓના હલકા અને ભારેપણાનો અંદાજ લગાવે છે.
3	M306.2	વિવિધ પ્રકારનાં ત્રાજવાં અને વજનિયાં વિશે જાણે છે.
4	M313.3	કોઈ સંખ્યાને બે સંખ્યાઓના ગુણાકાર સ્વરૂપે દર્શાવે છે.
5	M313.5	ગુણાકાર આધારિત પેટર્ન પૂર્ણ કરે છે.

સામયિક મૂલ્યાંકન કસોટી

ધોરણ-૩ ગણિત તા.૧૧/૦૨/૨૦૨૨

સમયઃ ૧ કલાક કુલ ગુણઃ ૨૫ ગુણ

પ્રશ્ન - ૧ પેટર્ન આગળ વધારો. (૫)

(૧)

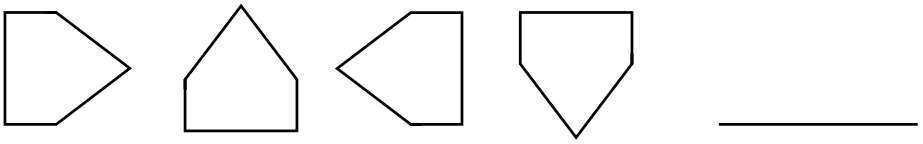

(અ) 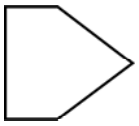
(બ) 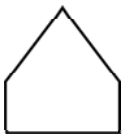
(ક) 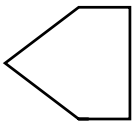
(ડ) 

(૨)

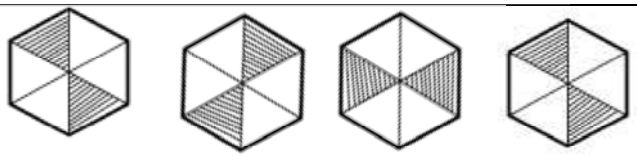

(અ)
(બ) 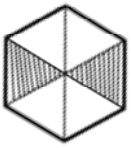
(ક) 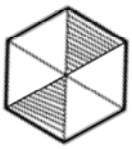
(ડ) 

(૩)

A B B A B _____

(અ) A (બ) B (ક) C (ડ) AB

(૪)

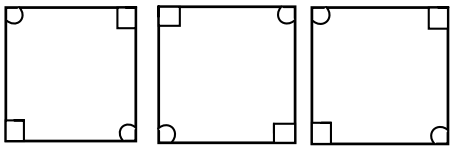

(અ) 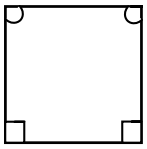
(બ) 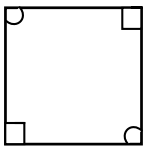
(ક) 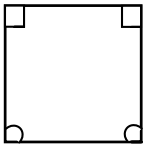
(ડ) 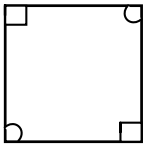

(૫)

(અ) 
(બ)
(ક) 
(ડ)

પ્રશ્ન - ૨ નીચેની અંક પેટર્ન સાચી હોય, તો (✓)ની અને ખોટી હોય તો, (×)ની નિશાની કરો. **(૫)**

(૧) ૨૧, ૪૧, ૬૧, ૮૧, ૧૦૧ ( )

(૨) ૦, ૨, ૬, ૧૨, ૨૦, ૩૨ ( )

(૩) ૨, ૩, ૬, ૧૧, ૧૮ ( )

(૪) ૨, ૧૨, ૨૨, ૩૨, ૫૨, ૬૨ ( )

(૫) ૪૧, ૪૭, ૫૧, ૫૭ , ૬૧, ૬૭ ( )

પ્રશ્ન - ૩ વિભાગ A ને વિભાગ B સાથે અનુમાન કરી સાચી રીતે જોડો. **(૫)**

વિભાગ A	વિભાગ B
(૧)	(૧) ૧ લિટર
(૨)	(૨) ૫૦૦ મિલિલિટર
(૩)	(૩) ૧૦ લિટર
(૪)	(૪) ૨૦,૦૦૦ લિટર
(૫)	(૫) ૫ મિલિલિટર

પ્રશ્ન - ૪ ખાલી જગ્યા પૂરો. **(૫)**

(૧) ૧૫ ÷ ૫ = ૩ હોય તો, _____ × ૩ = ૧૫ થાય.

(૨) ૨૧ ÷ _____ = ૩

(૩) જો ૨૪ ÷ _____ = ૩ હોય તો, _____ × ૩ = ૨૪ થાય.

(૪) ૫૬ ÷ ૮ = _____

(૫) ૭ ÷ _____ = ૭

પ્રશ્ન - ૫ નીચેના દાખલા ગણો.

(૧) જો ૨૦ રૂપિયાની ૮ નોટ હોય અને ચાર મિત્રોને સરખે ભાગે વહેંચવાની હોય, તો દરેક મિત્રને કેટલા રૂપિયા મળે ? (૨)

(૨) મહેશ પાસે કુલ ૩૨ ફુગ્ગા છે , તેના મહોલ્લાના ૮ ઘરમાં સરખે ભાગે વહેચવાના હોય તો દરેક ઘરને કેટલા ફુગ્ગા મળે? (૨)

(૩) ૩૬ સાબુને ૩ ખોખામાં સરખા ભાગે ગોઠવતાં દરેક ખોખામાં કેટલા સાબુ ગોઠવી શકાય? (૧)

શિક્ષક માટેઃ

પ્રશ્ન ક્રમાંક	અ.નિ. ક્રમાંક	વિધાન
1	M311.2	સરળ આકાર આધારિત પેટર્ન સમજે છે અને વિકસાવે છે.
2	M311.3	અંક આધારિત પેટર્ન સમજે છે અને વિકસાવે છે.
3	M307.1	ગુંજાશના પ્રમાણિત એકમોની સમજ ધરાવે છે.
4	M314	ભાગાકારનાં તથ્યો સમાન જૂથ, સમાન વહેંચણી અને પુનરાવર્તિત બાદબાકીના સંદર્ભમાં સમજે છે.
5	M314.3	વ્યાવહારિક કોયડાઓના ઉકેલ માટે ભાગાકારનો ઉપયોગ કરે છે.

સામયિક મૂલ્યાંકન કસોટી

ધોરણ-૩ ગણિત ઓગષ્ટ, ૨૦૨૧

સમય : ૧ કલાક કુલ ગુણ : ૨૫

અ.નિ. દ્વિ –પરિમાણીય (2D) આકારોની સમજ ધરાવે છે.

પ્રશ્ન-૧ આપેલ આકૃતિ ક્યાંથી દેખાય છે તે જોઈ સાચો વિકલ્પ શોધો. (૫)

(૧)

(અ) સામેથી (બ) પાછળથી (ક) બાજુથી (ડ) ઉપરથી

(૨)

(અ) સામેથી (બ) પાછળથી (ક) નીચેથી (ડ) ઉપરથી

(૩) 

(અ) સામેથી (બ) પાછળથી (ક) બાજુથી (ડ) ઉપરથી

(૪) 

(અ) સામેથી (બ) પાછળથી (ક) બાજુથી (ડ) ઉપરથી

(૫) 

(અ) સામેથી (બ) પાછળથી (ક) બાજુથી (ડ) ઉપરથી

અ.નિ. દ્વિ –પરિમાણીય (2D) આકારોની સમજ ધરાવે છે.

પ્રશ્ન-૨ નીચે આપેલ બિંદુઓની ગોઠવણીમાં નીચેના અંગ્રેજી મૂળાક્ષરોના(ડબલ લાઈન) ચિત્રો દોરો. (૫)

(E , N , H , T , Z) (નોધ: F ઉદાહરણ આપેલ છે તે મુજબ રચના કરો.)



અ.નિ. ત્રણ અંકની સંખ્યા સાથે કામ કરે છે. (૫)

પ્રશ્ન-3 નીચે આપેલ સંખ્યાઓની પેટર્નની ખાલી જગ્યા પૂરો.

(૧) ૪૫૧, ૪૬૧, ૪૭૧, ૪૮૧, _____ , _____ .

(૨) ૬૪૦, ૬૩૦, ૬૨૦, ૬૧૦, _____ , _____ .

(૩) ૧૦૬, ૧૧૨, ૧૧૮, ૧૨૪, _____ , _____ .

(૪) ૮૬૯, ૮૭૯, ૮૮૯, ૮૯૯, _____ , _____ .

(૫) ૩૭૩, ૩૭૦, ૩૬૭, ૩૬૪, _____ , _____.

અ.નિ. ત્રણ અંકની સંખ્યા સાથે કામ કરે છે.

પ્રશ્ન-૪ ખેલાડી અને તેમણે કરેલ રનના કોઠાના આધારે પ્રશ્નોના જવાબ આપો.

ખેલાડી	પહેલી મેચ	બીજી મેચ	ત્રીજી મેચ
કોહલી	૧૫૬	૧૧૮	૧૬૨
રાહુલ	૧૧૭	૧૦૦	૧૦૭
રોહિત	૧૮૬	૧૫૦	૧૩૨

(૧) કયા ખેલાડીએ કઈ મેચમાં ૧૧૭ રન કર્યા છે? _____ (૧)

(૨) સૌથી વધુ રન કયા ખેલાડીએ કઈ મેચમાં કર્યા છે? _____ (૧)

(૩) સૌથી ઓછા રન કયા ખેલાડીએ કઈ મેચમાં કર્યા છે? _____ (૧)

(૪) કોહલીના સૌથી વધુ અને સૌથી ઓછા રન વચ્ચે કેટલો તફાવત છે ? _____ (૨)

અ.નિ. ત્રણ અંકની સંખ્યા સાથે કામ કરે છે. (૫)

પ્રશ્ન-૫ વિભાગ-અ ને સાચી રીતે વિભાગ-બ સાથે જોડો.

	વિભાગ-અ	વિભાગ-બ
(૧)	પાંચસો નેવ્યાશી	૫૨૯
(૨)	૫૦૦+૭૦+૯	૫૭૯
(૩)	આઠસો ઓગણસાઈઠ	૮૬૯
(૪)	૮૦૦+૬૦+૯	૫૮૯
(૫)	પાંચસો ઓગણત્રીસ	૮૫૯

સામયિક મૂલ્યાંકન કસોટી

ધોરણ-૩ ગણિત જુલાઈ-૨૦૨૧

સમય: ૧ કલાક કુલ ગુણ: ૨૫

અ.નિ. બે અંકની સંખ્યા સાથે કામ કરે છે.

પ્રશ્ન-૧ નીચેના પ્રશ્નોના જવાબ આપો. (૫)

(૧) ઓગણસાઈઠને આંકડામાં કઈ રીતે લખાય ? .....

(૨) ૨૯ ને શબ્દોમાં કઈ રીતે લખાય ? .....

(૩) ૭ દશક અને ૪ એકમ એટલે .....

(૪) ત્યાંશીને આંકડામાં કઈ રીતે લખાય ? .....

(૫) ૯૧ એટલે .....

(અ) ૯ એકમ ૧ દશક (બ) ૯ દશક ૧ દશક

(ક) ૯ એકમ ૧ એકમ (ડ) ૧ એકમ ૯ દશક

અ.નિ. બે અંકની સંખ્યા લખવા અને તુલના કરવા સ્થાનકિંમતનો ઉપયોગ કરે છે.

પ્રશ્ન-૨ સાચા જવાબ પર O ની નિશાની કરો. (૫)

(૧) નાની સંખ્યા : ૫૮ , ૮૫

(૨) મોટી સંખ્યા : ૫૯ , ૯૫

(૩) વચ્ચેની સંખ્યા : ૪૬ , ૪૮ , ૪૭

(૪) સૌથી મોટી સંખ્યા : ૮૨ , ૧૪ , ૭૨ , ૮૦

(૫) સૌથી નાની સંખ્યા : ૭૬ , ૬૦ , ૭૦ , ૬૭

અ.નિ. બે અંકના સરવાળા કરીને રોજિંદા જીવનના કોયડા/સમસ્યા ઉકેલે છે.

પ્રશ્ન-૩ નીચેના દાખલા ગણો.

(૧) ૯ + ૮ = ... (૧)

(૨) (૨)

	દશક	એકમ
	૪	૬
+	૩	૨

(૩) મુમતાજે ૨૪ રૂપિયાના બિસ્કિટ અને ૧૬ રૂપિયાનું વેફરનું પેકેટ ખરીદ્યું. તેને કેટલા રૂપિયા ચૂકવવા પડશે? (૨)

અ.નિ. બે અંકની બાદબાકી કરીને રોજિંદા જીવનના કોયડા/સમસ્યા ઉકેલે છે.

પ્રશ્ન-૪ નીચેના દાખલા ગણો.

(૧) બાદબાકી કરો: (૨)

	દશક	એકમ
	૫	૬
−	૩	૪

(૨) સ્વામી વિવેકાનંદ પ્રાથમિક શાળામાં ધોરણ-૩માં કુલ ૩૮ વિદ્યાર્થીઓ છે. તેમાંથી ૧૮ છોકરાઓ છે, તો છોકરીઓની સંખ્યા કેટલી હશે ? (૨)

(૩) ☐ માં સાચો અંક મૂકો : ૫૮ − ☐ = ૩૨ (૧)

અ.નિ. અઠવાડિયાના દિવસો અને વર્ષના મહિના ઓળખે છે.

પ્રશ્ન-૫ નીચેના પ્રશ્નોના જવાબ ખાલી જગ્યામાં લખો. (૫)

(૧) ગુરુવાર પછી ક્યો વાર આવે છે ? _____

(૨) શ્રાવણ મહિના પહેલાં ક્યો મહિનો આવે છે ? _____

(૩) મે મહિના પછી ક્યો મહિનો આવે છે ? _____

(૪) શુક્રવાર અને રવિવારની વચ્ચે ક્યો વાર આવે છે ? _____

(૫) અંગ્રેજી મહિનાનો આઠમો મહિનો ક્યો છે ? _____